Identifier les Groupes de 100

Nom:

Utilisez les groupements pour répondre à chaque question.

1) a. Combien de groupes de 100 y a-t-il?
b.Combien de blocs y a-t-il?



2) a. Combien de groupes de 100 y a-t-il?
b.Combien de blocs y a-t-il?

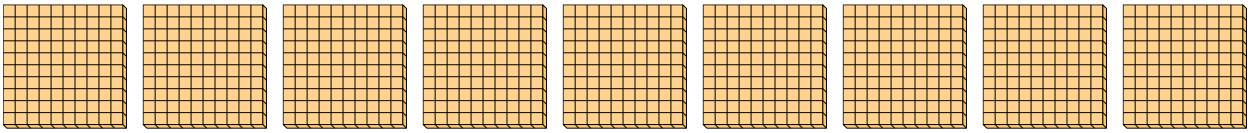

3) a. Combien de groupes de 100 y a-t-il?
b.Combien de blocs y a-t-il?

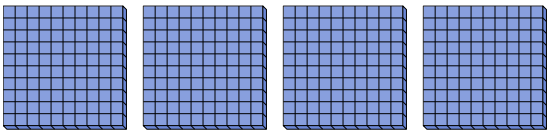

4) a. Combien de groupes de 100 y a-t-il?
b.Combien de blocs y a-t-il?

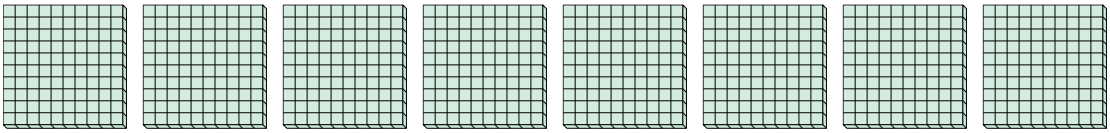

5) a. Combien de groupes de 100 y a-t-il?
b.Combien de blocs y a-t-il?

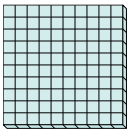

6) a. Combien de groupes de 100 y a-t-il?
b.Combien de blocs y a-t-il?

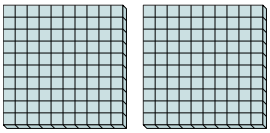

7) a. Combien de groupes de 100 y a-t-il?
b.Combien de blocs y a-t-il?

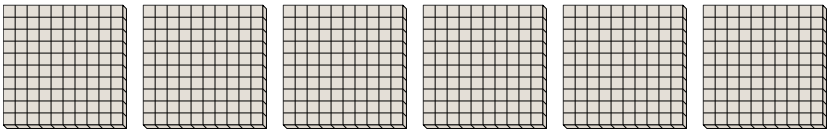

Réponses

1. ____ ____
2. ____ ____
3. ____ ____
4. ____ ____
5. ____ ____
6. ____ ____
7. ____ ____

1-7	86	71	57	43	29	14	0

Identifier les Groupes de 100

Nom: **Clé**

Utilisez les groupements pour répondre à chaque question.

1) a. Combien de groupes de 100 y a-t-il?
b.Combien de blocs y a-t-il?



2) a. Combien de groupes de 100 y a-t-il?
b.Combien de blocs y a-t-il?

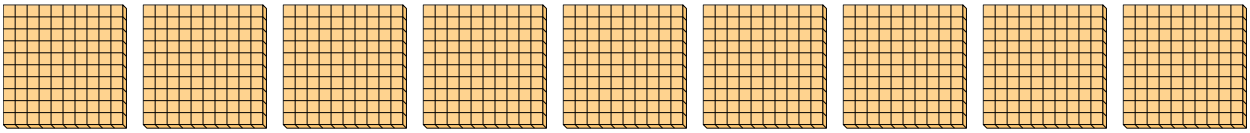

3) a. Combien de groupes de 100 y a-t-il?
b.Combien de blocs y a-t-il?

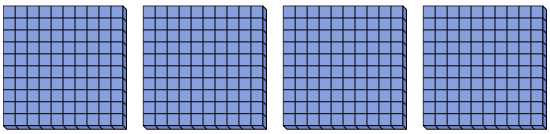

4) a. Combien de groupes de 100 y a-t-il?
b.Combien de blocs y a-t-il?

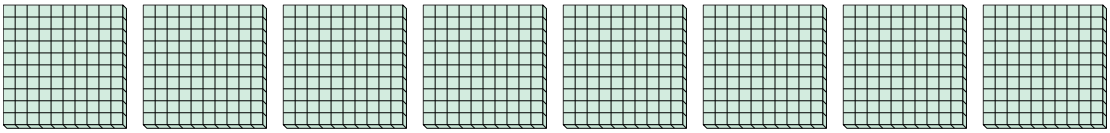

5) a. Combien de groupes de 100 y a-t-il?
b.Combien de blocs y a-t-il?

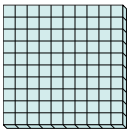

6) a. Combien de groupes de 100 y a-t-il?
b.Combien de blocs y a-t-il?

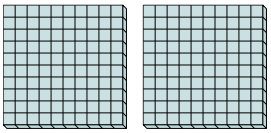

7) a. Combien de groupes de 100 y a-t-il?
b.Combien de blocs y a-t-il?

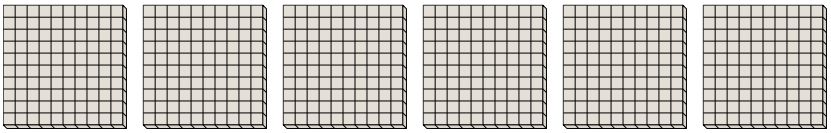

Réponses

1. 7 700
2. 9 900
3. 4 400
4. 8 800
5. 1 100
6. 2 200
7. 6 600

1-7	86	71	57	43	29	14	0