Faire Correspondre avec les Thermomètres

Nom:

Déterminez quelle lettre répond le mieux à chaque question.

1) Quelle thermomètre représente le mieux la température de 26°?

2) Quelle thermomètre représente le mieux la température de 20°?

3) Quelle thermomètre représente le mieux la température de 21°?

4) Quelle thermomètre représente le mieux la température de 96°?

5) Quelle thermomètre représente le mieux la température de 25°?

6) Quelle thermomètre représente le mieux la température de 51°?

7) Quelle thermomètre représente le mieux la température de 85°?

8) Quelle thermomètre représente le mieux la température de 34°?

9) Quelle thermomètre représente le mieux la température de 115°?

10) Quelle thermomètre représente le mieux la température de 60°?

A.

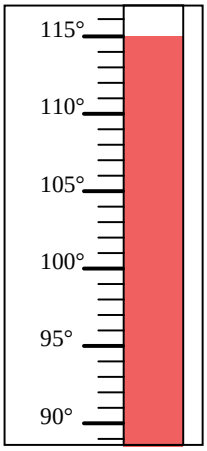

B.

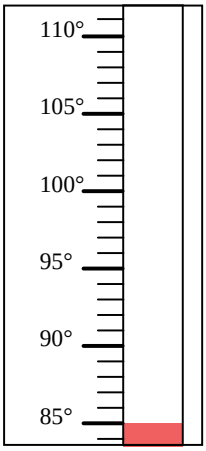

C.

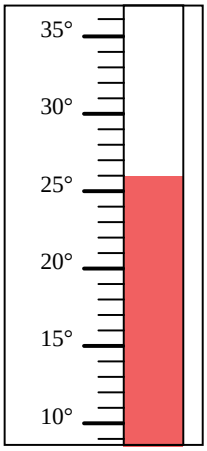

D.

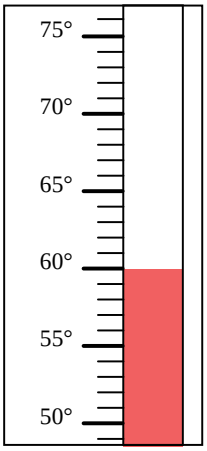

E.

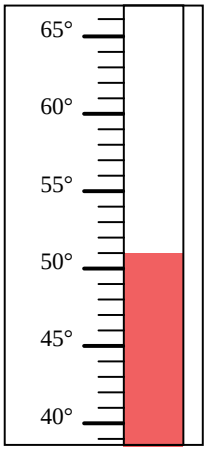

F.

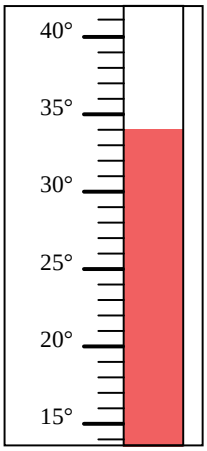

G.

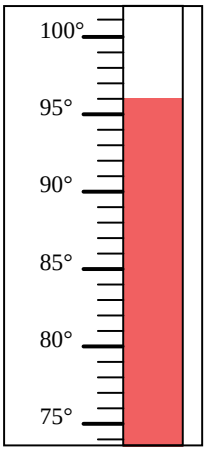

H.

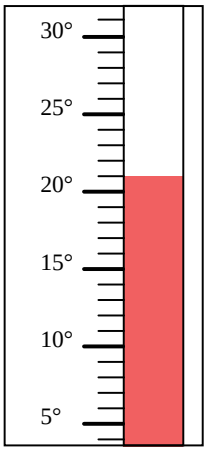

I.

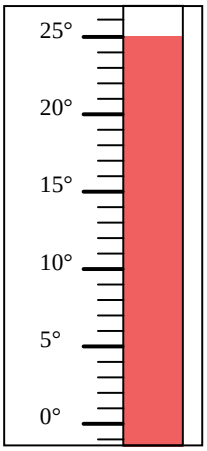

J.

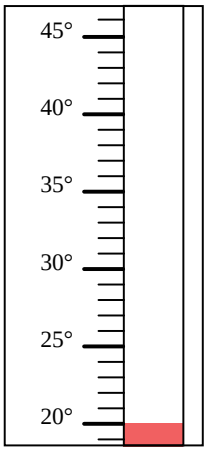

Réponses

1. _____
2. _____
3. _____
4. _____
5. _____
6. _____
7. _____
8. _____
9. _____
10. _____

1-10	90	80	70	60	50	40	30	20	10	0

Faire Correspondre avec les Thermomètres Nom: **Clé**

Déterminez quelle lettre répond le mieux à chaque question.

1) Quelle thermomètre représente le mieux la température de 26°?

2) Quelle thermomètre représente le mieux la température de 20°?

3) Quelle thermomètre représente le mieux la température de 21°?

4) Quelle thermomètre représente le mieux la température de 96°?

5) Quelle thermomètre représente le mieux la température de 25°?

6) Quelle thermomètre représente le mieux la température de 51°?

7) Quelle thermomètre représente le mieux la température de 85°?

8) Quelle thermomètre représente le mieux la température de 34°?

9) Quelle thermomètre représente le mieux la température de 115°?

10) Quelle thermomètre représente le mieux la température de 60°?

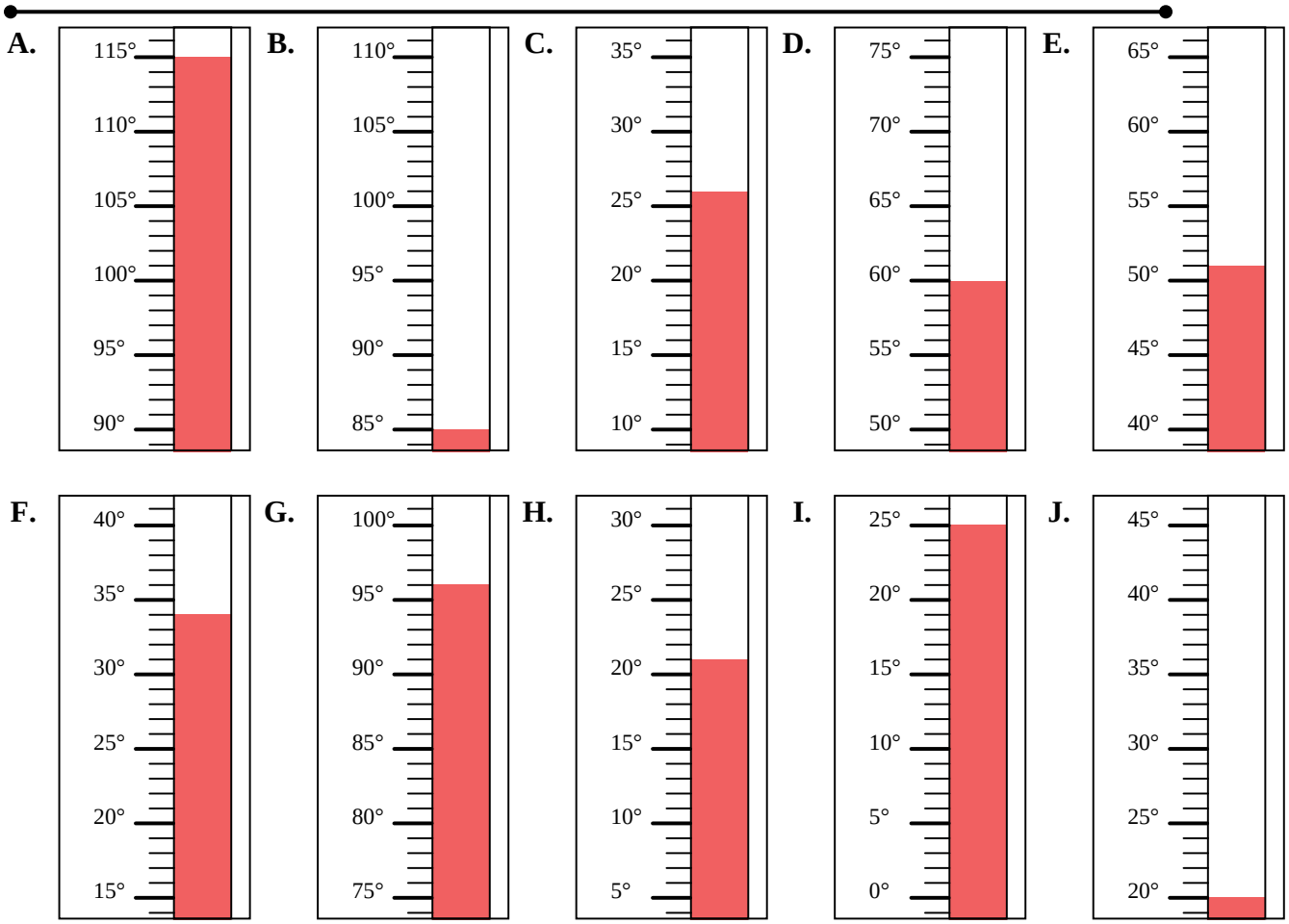

Réponses

1. **C**
2. **J**
3. **H**
4. **G**
5. **I**
6. **E**
7. **B**
8. **F**
9. **A**
10. **D**