Identifier des Ratios Visuels

Nom:

Résoudre chaque problème.

Ex) Quel est le ration de triangles par rapport à carrés?

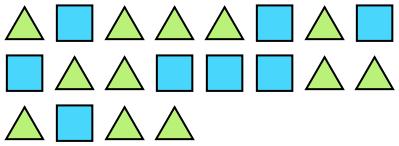

1) Quel est le ration de étoiles par rapport à carrés?



2) Quel est le ration de moons par rapport à étoiles?

3) Quel est le ration de moons par rapport à étoiles?

4) Quel est le ration de étoiles par rapport à hearts?



5) Quel est le ration de triangles par rapport à hearts?

6) Quel est le ration de hearts par rapport à moons?

7) Quel est le ration de hearts par rapport à étoiles?

8) Quel est le ration de hearts par rapport à cercles?



9) Quel est le ration de carrés par rapport à pentagone?

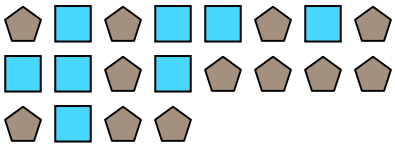

10) Quel est le ration de hearts par rapport à pentagone?

11) Quel est le ration de carrés par rapport à étoiles?



Réponses

Ex. 12:8

1. _____
2. _____
3. _____
4. _____
5. _____
6. _____
7. _____
8. _____
9. _____
10. _____
11. _____

1-10	91	82	73	64	55	45	36	27	18	9
11	0									

Identifier des Ratios Visuels

Nom: **Clé**

Résoudre chaque problème.

Ex) Quel est le ration de triangles par rapport à carrés?

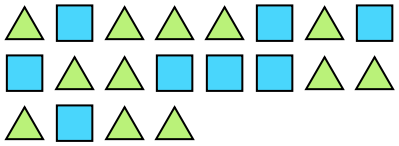

1) Quel est le ration de étoiles par rapport à carrés?

2) Quel est le ration de moons par rapport à étoiles?

3) Quel est le ration de moons par rapport à étoiles?

4) Quel est le ration de étoiles par rapport à hearts?



5) Quel est le ration de triangles par rapport à hearts?

6) Quel est le ration de hearts par rapport à moons?

7) Quel est le ration de hearts par rapport à étoiles?

8) Quel est le ration de hearts par rapport à cercles?



9) Quel est le ration de carrés par rapport à pentagone?

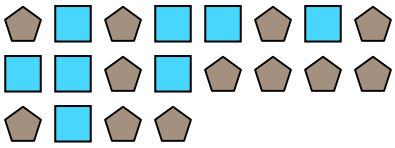

10) Quel est le ration de hearts par rapport à pentagone?

11) Quel est le ration de carrés par rapport à étoiles?



Réponses

Ex.	12:8
1.	3:9
2.	11:2
3.	10:4
4.	8:11
5.	8:6
6.	2:10
7.	9:13
8.	9:7
9.	8:12
10.	4:2
11.	13:14

1-10	91	82	73	64	55	45	36	27	18	9
11	0									