Division Visuelle

Nom:

Utilisez les formes pour répondre aux questions.

Ex) Combien de groupes de 6 pouvez-vous faire avec les 18 formes ci-dessous?

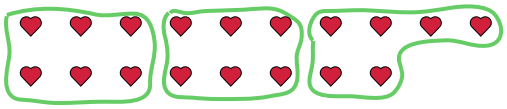

1) Combien de groupes de 2 pouvez-vous faire avec les 26 formes ci-dessous?

2) Combien de groupes de 9 pouvez-vous faire avec les 36 formes ci-dessous?

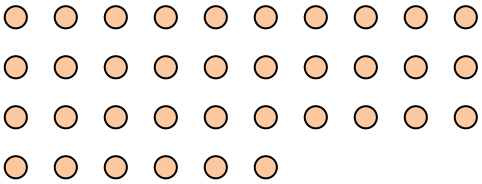

3) Combien de groupes de 3 pouvez-vous faire avec les 24 formes ci-dessous?



4) Combien de groupes de 7 pouvez-vous faire avec les 35 formes ci-dessous?



5) Combien de groupes de 2 pouvez-vous faire avec les 38 formes ci-dessous?

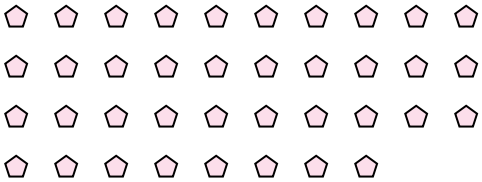

6) Combien de groupes de 8 pouvez-vous faire avec les 40 formes ci-dessous?

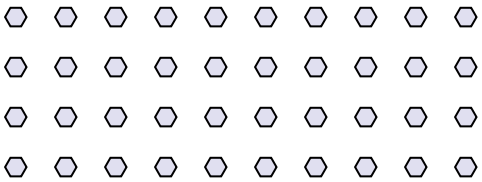

7) Combien de groupes de 9 pouvez-vous faire avec les 36 formes ci-dessous?



8) Combien de groupes de 4 pouvez-vous faire avec les 40 formes ci-dessous?

9) Combien de groupes de 7 pouvez-vous faire avec les 35 formes ci-dessous?

10) Combien de groupes de 5 pouvez-vous faire avec les 10 formes ci-dessous?

11) Combien de groupes de 9 pouvez-vous faire avec les 27 formes ci-dessous?



Réponses

Ex. 3

1. _____
2. _____
3. _____
4. _____
5. _____
6. _____
7. _____
8. _____
9. _____
10. _____
11. _____

1-10	91	82	73	64	55	45	36	27	18	9
11	0									

Division Visuelle

Nom: **Clé**

Utilisez les formes pour répondre aux questions.

Ex) Combien de groupes de 6 pouvez-vous faire avec les 18 formes ci-dessous?

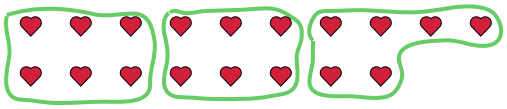

1) Combien de groupes de 2 pouvez-vous faire avec les 26 formes ci-dessous?

2) Combien de groupes de 9 pouvez-vous faire avec les 36 formes ci-dessous?

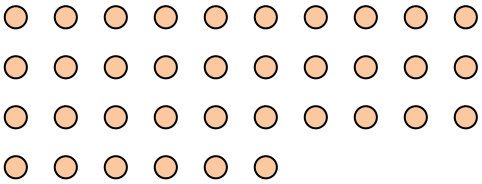

3) Combien de groupes de 3 pouvez-vous faire avec les 24 formes ci-dessous?



4) Combien de groupes de 7 pouvez-vous faire avec les 35 formes ci-dessous?



5) Combien de groupes de 2 pouvez-vous faire avec les 38 formes ci-dessous?

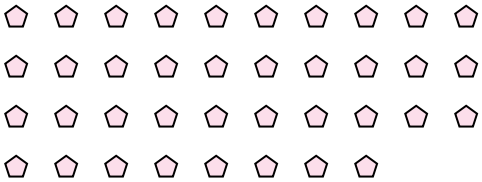

6) Combien de groupes de 8 pouvez-vous faire avec les 40 formes ci-dessous?

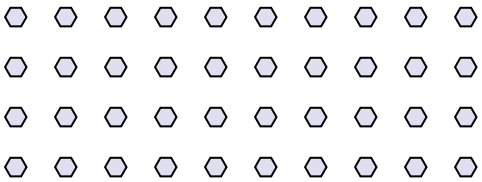

7) Combien de groupes de 9 pouvez-vous faire avec les 36 formes ci-dessous?



8) Combien de groupes de 4 pouvez-vous faire avec les 40 formes ci-dessous?

9) Combien de groupes de 7 pouvez-vous faire avec les 35 formes ci-dessous?

10) Combien de groupes de 5 pouvez-vous faire avec les 10 formes ci-dessous?

11) Combien de groupes de 9 pouvez-vous faire avec les 27 formes ci-dessous?



Réponses

Ex.	3
1.	13
2.	4
3.	8
4.	5
5.	19
6.	5
7.	4
8.	10
9.	5
10.	2
11.	3

1-10	91	82	73	64	55	45	36	27	18	9
11	0									