Division Visuelle

Nom:

Utilisez les formes pour répondre aux questions.

Ex) Combien de groupes de 6 pouvez-vous faire avec les 18 formes ci-dessous?

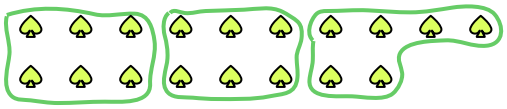

1) Combien de groupes de 3 pouvez-vous faire avec les 9 formes ci-dessous?

2) Combien de groupes de 6 pouvez-vous faire avec les 18 formes ci-dessous?

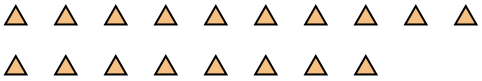

3) Combien de groupes de 8 pouvez-vous faire avec les 16 formes ci-dessous?

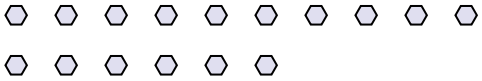

4) Combien de groupes de 4 pouvez-vous faire avec les 8 formes ci-dessous?

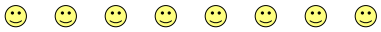

5) Combien de groupes de 8 pouvez-vous faire avec les 16 formes ci-dessous?

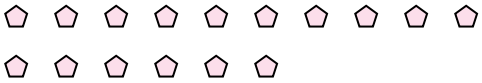

6) Combien de groupes de 2 pouvez-vous faire avec les 24 formes ci-dessous?

7) Combien de groupes de 2 pouvez-vous faire avec les 18 formes ci-dessous?

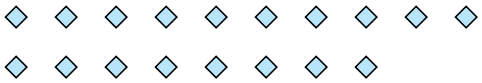

8) Combien de groupes de 9 pouvez-vous faire avec les 27 formes ci-dessous?



9) Combien de groupes de 9 pouvez-vous faire avec les 36 formes ci-dessous?



10) Combien de groupes de 6 pouvez-vous faire avec les 30 formes ci-dessous?

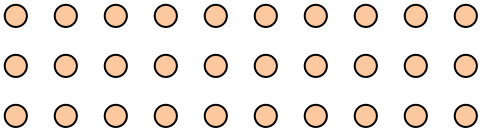

11) Combien de groupes de 3 pouvez-vous faire avec les 39 formes ci-dessous?

Réponses

Ex. 3

1. _____
2. _____
3. _____
4. _____
5. _____
6. _____
7. _____
8. _____
9. _____
10. _____
11. _____

1-10	91	82	73	64	55	45	36	27	18	9
11	0									

Division Visuelle

Nom: **Clé**

Utilisez les formes pour répondre aux questions.

Ex) Combien de groupes de 6 pouvez-vous faire avec les 18 formes ci-dessous?

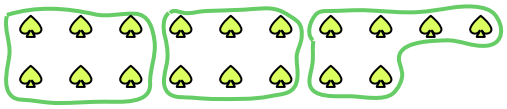

1) Combien de groupes de 3 pouvez-vous faire avec les 9 formes ci-dessous?

2) Combien de groupes de 6 pouvez-vous faire avec les 18 formes ci-dessous?

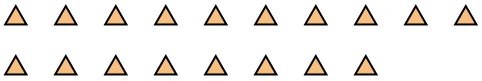

3) Combien de groupes de 8 pouvez-vous faire avec les 16 formes ci-dessous?

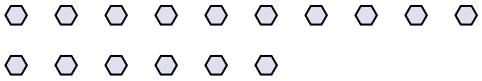

4) Combien de groupes de 4 pouvez-vous faire avec les 8 formes ci-dessous?

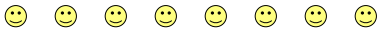

5) Combien de groupes de 8 pouvez-vous faire avec les 16 formes ci-dessous?

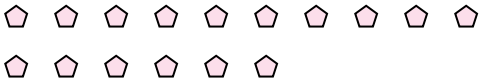

6) Combien de groupes de 2 pouvez-vous faire avec les 24 formes ci-dessous?

7) Combien de groupes de 2 pouvez-vous faire avec les 18 formes ci-dessous?

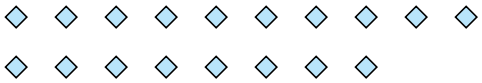

8) Combien de groupes de 9 pouvez-vous faire avec les 27 formes ci-dessous?



9) Combien de groupes de 9 pouvez-vous faire avec les 36 formes ci-dessous?



10) Combien de groupes de 6 pouvez-vous faire avec les 30 formes ci-dessous?

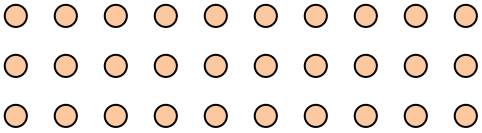

11) Combien de groupes de 3 pouvez-vous faire avec les 39 formes ci-dessous?

Réponses

Ex.	3
1.	3
2.	3
3.	2
4.	2
5.	2
6.	12
7.	9
8.	3
9.	4
10.	5
11.	13

1-10	91	82	73	64	55	45	36	27	18	9
11	0									